3年生	算数ドリル グラフと表②-1	時間 10分
年　組　名前		点数 クリア40点 /50点

棒グラフは「めもり」の数を数えて「どれだけか」をしらべるんだ。

1 右の棒グラフは、4人がもっているお金を表したものです。【各10点】

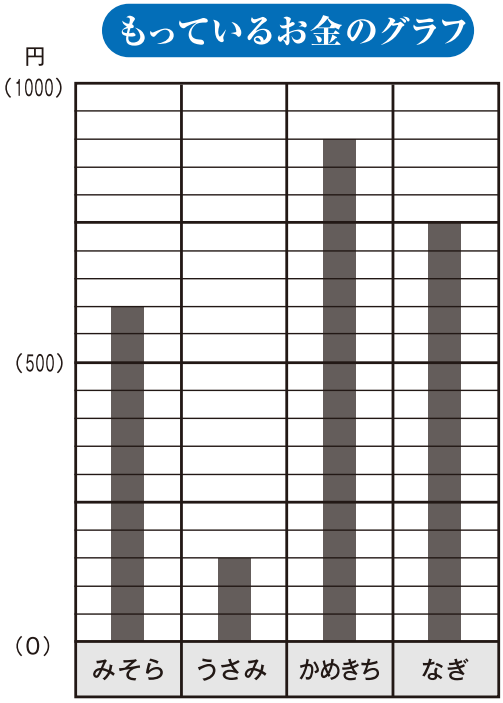

(1) 右のグラフの1めもりは、いくらを表していますか

答え 50円

(2) みそらは、いくらもっていますか

答え 600円

(3) 1番多くお金をもっているのは、だれ で いくらですか

答え かめきち で 900円

(4) みそらとなぎがもっているお金をたすと、いくらになりますか

答え 1350円

(5) かめきちがもっているお金は、うさみのお金の何倍ですか

答え 6倍

©みそにゃch misonya.com

3年生	算数ドリル グラフと表②-2	時間 10分
年　組　名前		点数 クリア20点 /30点

「正」の字は、五角でわかりやすいから、数を記すのによく使われるんだ。「①一」「②丅」「③下」「④丌」「⑤正」

1 4人で、だれかが40回かつまでじゃんけんをして、そのかった回数を下の表にしました。

【1問10点】

	じゃんけんにかった回数
みそら	正 正 正 正 正 正 正 正
うさみ	正 正 正 丌
かめきち	正 正 一
なぎ	正 正 正 丅

じゃんけんのグラフ

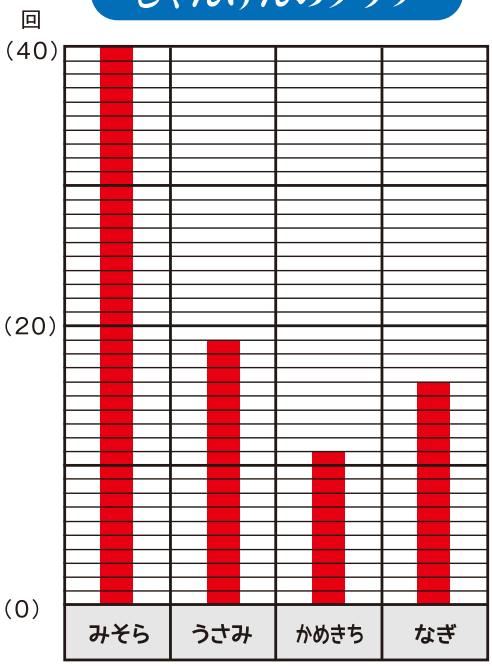

（1） 上の表を、右の図に棒グラフで表しましょう

（2） 4人は全部で、何回じゃんけんをしましたか　答え 87回

2 3年1組で、家にイヌかネコがいる人をしらべました。

家にイヌがいる人は17人。

家にネコがいる人は12人。

どちらもいる人は3人。

どちらもいない人は10人でした。

このことを、右の表にまとめましょう

【10点】

イヌとネコの表

		ネコ いる	ネコ いない	合計
イヌ	いる	3	14	17
	いない	9	10	19
合計		12	24	36

©みそにゃch misonya.com

3年生	算数ドリル グラフと表②-3	時間 10分
年　組　名前		点数 クリア40点 /50点

表は、「図」じゃないんだ。文字や数字で表されているものなんだよ。

1 3年1組は、36人のクラスです。
3年1組の国語と算数のテストのけっかを、表にまとめました。

国語のテスト

点数	人数
90~100	5
80~ 89	14
70~ 79	【ア】
60~ 69	6
0~ 59	2

算数のテスト

点数	人数
90~100	7
80~ 89	【イ】
70~ 79	11
60~ 69	4
0~ 59	4

(1) 右の表の【ア】には、何人が入りますか 【10点】

答え 9人

(2) 右の表の【イ】には、何人が入りますか 【10点】

答え 10人

(3) それぞれの点数が、70点より高かった人は、何人ですか 【各5点】

国語のテスト 28人　　算数のテスト 28人

(4) みそらちゃんは、国語も算数も、クラスで18番目でした。
みそらちゃんは、それぞれのテストで、何点~何点のところにいますか 【各10点】

国語のテスト 80~89点

算数のテスト 70~79点

©みそにゃch misonya.com

3年生	算数ドリル グラフと表②-4	時間 10分
年　組　名前		点数 クリア30点 /40点

棒グラフをしらべるときは、「1めもり」が「いくつ」なのかを、さいしょにしってないといけないんだ

1 □の数を棒グラフにしましょう 【1問5点】

（1）

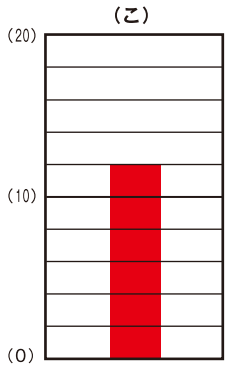

12こ

（2）

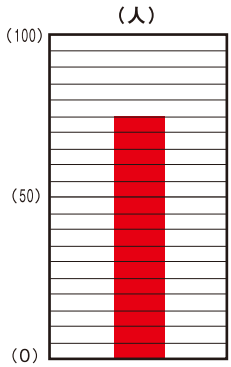

75人

（3）

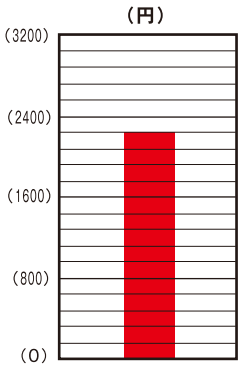

2240円

（4）

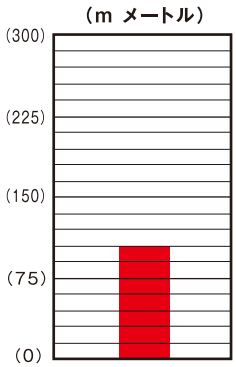

105m

2 3年1組の人の、好きな動物をしらべました。

イヌが7人、ネコが10人、キリンが3人、ライオンが2人、ゾウが4人、ウサギが2人、カメが1人、とくにいないが7人でした。

このことを、表と棒グラフにしましょう 【各10点】

（1） 好きな動物の表

好きな動物	人数
イヌ	7
ネコ	10
キリン	3
ライオン	2
ゾウ	4
ウサギ	2
カメ	1
いない	7

（2） 好きな動物のグラフ

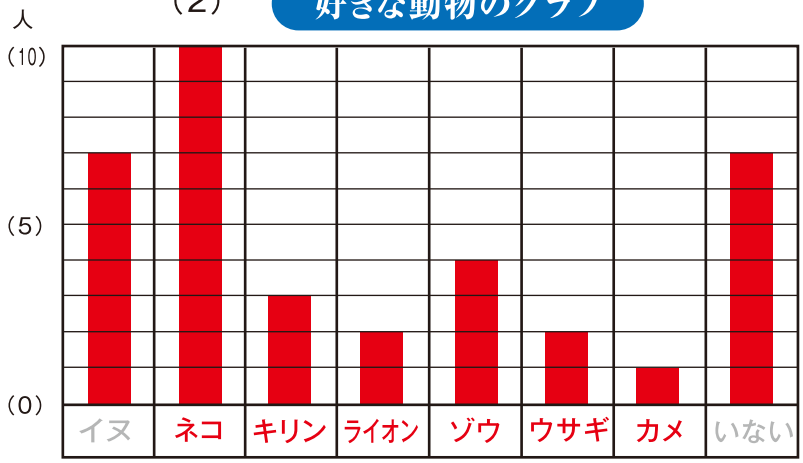

©みそにゃch misonya.com