3年生	算数ドリル 学力テスト④-1	時間 10分
年　組　名前		点数 クリア30点 /40点

3年生の算数は、ちゃんとわかってるかな？
どれだけわかっているか、たしかめよう

1 □に入る数を書こう 【1問5点】

(1) 8×8×5＝8×□　　(2) 7＋9×7＝7×□

(3) 25×8－100＝10×□　　(4) 88－48÷8＝100－□

(5) 24－3×7＝5×6－□

2

ジュースを350mLが入るペットボトルに入れてくと、6本のペットボトルがいっぱいになったところで、ジュースはのこり115mLになりました。

ジュースは全部で、何L何mLありますか。1つの式で書いて、答えを出そう 【5点】

式　　答え

3

111枚のカードを7人で同じ数ずつわけると、6枚あまりました。

1人分のカードは、何枚ですか。1つの式で書いて、答えを出そう 【5点】

式　　答え

4

12ダースのエンピツを、9人で同じ数ずつわけました。

1人分のエンピツは、何本ですか。1つの式で書いて、答えを出そう 【5点】

式　　答え

©みそにゃch misonya.com

3年生	算数ドリル 学力テスト④-2	時間 10分
年　組　名前		点数 クリア40点 /50点

重さの単位は「t」「kg」「g」「mg」だよ
それぞれ1000倍ずつで、「単位」がかわるだったよね

1 □に入る数を書こう 【1問5点】

(1) 370g + 480g = □ g　(2) 750g + 750g = □ kg □ g

(3) 9kg − 6800g = □ g　(4) 10g − 8760mg = □ g □ mg

(5) 20kg350g − 12kg900g = □ g = □ kg □ g

(6) 1t − 970400g = □ g = □ kg □ g

2 重さのところに、はりを書こう 【1問5点】

(1)

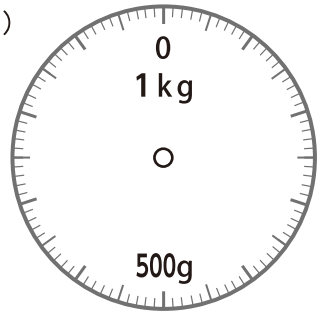

850g

(2)

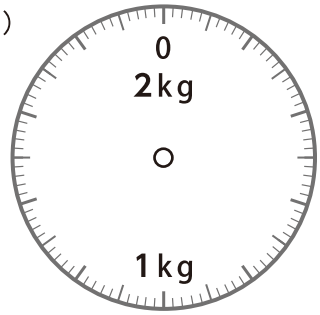

740g

(3)

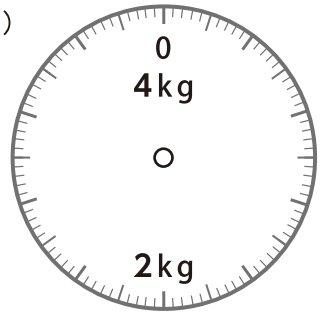

2kg800g

3 ボールが6こが入っている箱の重さをはかると、1kg280gでした。

ボール1この重さを185gだとすると、箱だけの重さは、何gですか 【5点】

式　　答え

©みそにゃch misonya.com

3年生	算数ドリル 学力テスト④-3	時間 10分
年　組　名前		点数 クリア30点 /40点

箱の形の、平らなところが「面（めん）」
面をつくっている、まっすぐな線（直線）が「辺（へん）」
3本の辺がくっついている点が、「ちょう点（ちょうてん）」だよ

1 箱の形ついて、□に入る名前と数を書こう 【1問5点】

（1）㋐は□といい、□つあります

（2）㋑は□といい、□つあります

（3）㋒は□といい、□本あります

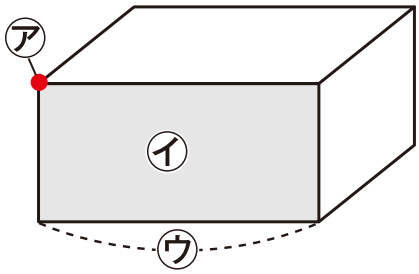

2 右の図のような箱の形について、かんがえよう 【1問5点】

（1）面1は、長方形・正方形 です。

（2）面1と面3は、同じ・ちがう 大きさです。

（3）面2の大きさは、面1の大きさの 半分・2倍 です。

（4）組み立てた時、辺アと重なるのは 辺イ・辺ウ です。

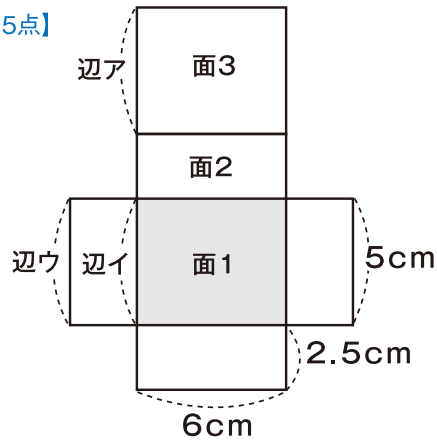

3 たて12cm・横7cm・高さ8.5cmの箱の形の辺の長さをすべてたすと、何mになりますか 【5点】

式

答え

©みそにゃch misonya.com

3年生	算数ドリル 学力テスト④-4	時間 10分
年　組　名前		点数 クリア40点 /50点

「かけ算」と「わり算」の「ひっ算」だよ。
「ひっ算」ができると、むずかしい計算でも
まちがわないで できるよね

1 □に数字を入れて、かけ算（ひっ算）を完成させよう【1問5点】

（1）
$$\begin{array}{r} 12\square \\ \times\quad 3 \\ \hline 372 \end{array}$$

（2）
$$\begin{array}{r} 21\square \\ \times\quad 6 \\ \hline 1302 \end{array}$$

（3）
$$\begin{array}{r} 4\square 8 \\ \times\quad 7 \\ \hline 2856 \end{array}$$

（4）
$$\begin{array}{r} \square 98 \\ \times\quad 5 \\ \hline 3490 \end{array}$$

2 □に数字を入れて、わり算（ひっ算）を完成させよう【1問5点】

（1）
$$\begin{array}{r} \square \\ 4\,\overline{)\,3\square} \\ 28 \\ \hline 3 \end{array}$$

（2）
$$\begin{array}{r} 6 \\ \square\,\overline{)\,\square\square} \\ 36 \\ \hline 5 \end{array}$$

（3）
$$\begin{array}{r} \square \\ 7\,\overline{)\,\square 5} \\ 6\square \\ \hline 2 \end{array}$$

（4）
$$\begin{array}{r} 8 \\ \square\,\overline{)\,7\square} \\ 6\square \\ \hline 7 \end{array}$$

3 1分間で850mを走る車は、**1時間では何km進みますか**【5点】

式　　答え

4 ちょ金箱の中には、7415円が入っています。
100円玉が21枚、10円玉が363枚、のこりは全部5円玉です。
ちょ金箱に入っている5円玉は、何枚ですか【5点】

式　　答え

©みそにゃch misonya.com